ابو ياسر عباس الشكرجي 0735557898

PÄRM 10

1

انت تسوق في طريق ريفي و تفكر في تجاوز شاحنة . ما هو الادعاء الذي يصف بافضل طريقه كيف يجب ان تحضر للتجاوز.

A اسوق كثير قريبا وراء الشاحنة حتى اقصر مسافة التجاوز . .

B . اسوق قريبا من خط الوسط و احافظ على مسافة بعيدة عن الشاحنة حتى استطيع الرؤية بعيدا للامام

C . اغمز بالضوء العالي حتى انبه السير بالجهة المقابلة.

D . ازمر حتى اجعل الشاحنة تسوق على جانب الطريق

2

في اي من الصور يوجد سيارة راكنة صحيح

A

B

C

D

A نعم في الصورة

B نعم في الصور ة

C نعم في الصورة .

D نعم في الصور ة

E . كلا لا يوجد

3

انت عبرت هذه الشاخصة بسيارتك. ما هي السرعة القصوى المسموحة اذا لم يكن هناك دلالة اخرى على السرعة



A . 50كم في الساعة
B . 70كم في الساعة
C .90كم في الساعة
D . 110 كم في الساعة

4

ماهو الصحيح فيما يتعلق بحقل السياقة ؟

A . هامش الطريق هو حقل سياقة
B . من الممكن أن لا يكون هناك علامات على حقل الطريق
C . يجب أن يكون هناك علامات على حقل السياقة

5

بعد اي شاخصة يجب ان تكون سرعتك اخف شئ و ذلك في الاحوال العادية

A .الشاخصة
B .الشاخصة
C .الشاخصة

6

اي نوع من ال مركبات تستطيع سياقتها باجازة سياقة فئة B

A . سيارة وزن الخدمة لها 1300 كلغ وساحبة مقطورة وزنها الاجمالي 1200 كلغ
B . سيارة وزن الخدمة لها 1100 كلغ وساحبة مقطورة وزنها الاجمالي 1200 كلغ
C . سيارة وزنها الجمالي 1400 كلغ وساحبة مقطورة وزنها الاجمالي 1400 كلغ
D . سيارة وزن الجمالي 2000 كلغ وساحبة مقطورة وزنها الاجمالي 1600 كلغ

7

متى يكون اكثر شئ في خطر عندما السائق يشوف البيئة التي يسوق فيها و يترجم هذه الرؤيا خطا.

A . عندما يسوق على طريق فيها ثلج كثير و مضوي الضوء العالي
B . عندما يسوق على الاتوستراد في يوم صيفي عادي
C . عندما يسوق على طريق غير مزفت في يوم صيفي عادي

ابو عباس

8

متى يكون هناك اكبر خطر انك ستتعرض لتسمم اول اوكسيد الكربون

A . عندما اسوق بسرعة عالية و الشبابيك مفتوحة

B . عندما تشغل محرك السيارة في كراج و التهوية فيه سيئة

C . عندما اسوق على مهلي في منطقة مكتظة بالسكان مع ازدحام بالسيارات

D . عندما اسوق بسرعة خفيفة و الشبابيك مفتوحة

9

ما هي السرعة القصوى المسموحة عندما تسحب خلفك سيارة اخرى

A . السرعة القصوى هي 30 كم في الساعة

B . السرعة القصوى هي 40 كم في الساعة

C . السرعة القصوى هي 50 كم في الساعة

10

اذا تريد الاستدارة على التقاطع اي ادعاء هو الصحيح.



A . لازم اترك افضلية المرور للمركبات الاتية من اليسار عند التقاطع

B . لازم اتوقف قبل ان ادخل في التقاطع

C . عندي واجب اعطاء الاولوية لكل المركبات الموجودة في التقاطع

D . لازم اكون حذر و منتبه قبل ان افوت بالتقاطع.

11

اذا تريد الاستدارة الى جهة اليسار . في اي من الحالات التالية ممكن ان المركبات اللي بتعبر على طريقك يكون عندها ضوء اخضر بنفس الوقت مثلك

A .في الصور الاولى

B .في الصورة الثانية

12

أنت تنوي السياقة للأمام .هل ينطبق قانون اليمين على أي من التقاطعين؟

A نعم وفقط في الصورة A
B نعم وفقط في الصورة B
C B و A نعم في الصورتين
D . كلا

13

اي شاخصة من هؤلاء الشواخص تعني انه لا يحق لك الوقوف PARKERA



A.الشاخصة
B.الشاخصة
C.الشاخصة
D .الشاخصة

14

ماهي السرعة القصوى المسموحة في هذه المنطقة

A 30كم/ سا
B 70كم/ سا
C 50كم/ سا

15

انت تريد الاستدارة لليمين . اي خطر مخفي لازم تنتبه له لما اشارة المرور تضئ باللون الاخضر

A . المشاة الذين سيعبرون معبر المشاة امامي
B . الدراجات التي تاتي من الخلف على طريق الدراجات
C . الدراجات التي تاتي من الامام على طريق الدراجات
D . المركبات التي من الامام و بدها تلف يسار على التقاطع

16

انت اجبرت ان تبتعد الى اليمين و تنحرف خارج الطريق و السيارة تصاب باذى. ما هو التامين اللي لازم يكون عندك حتى تعوض لك تكاليف الرافعة و تصليح سيارتك

A . تامين شامل
B . تامين السكن
C . تامين مرور
D . نصف تامين

17

ما هي الاسباب العادية التي تسبب مواقف خطرة بالسير

A . نقص عند السائق
B . نقص في بيئة السير
C . نقص في المركبة

18

ا نت وصلت مقطورة خفيفة خلف سيارتك و المقطورة فيها فرامل. ما هي السرعة القصوى المسموحة

A . 30كم في الساعة
B .80كم في الساعة
C . 90كم في الساعة
D .110كم في الساعة

19

هل يوجد فرق ما بين الخط السريع و الاوتوتسراد

A . نعم على الطريق السريع مسموح الوقوف

ابو ياسر عباس

B . نعم على الطريق السريع مسموح اللف والدوران
C . نعم على الطريق السريع يمكن ان ياتي سيارات مقابلة في نفس حقل السير
D . نعم على الطريق السريع مسموح يمكن ان يكون تقاطعات على نفس المستوى
E. كلا لا يوجد فرق

20

لمن عليك انت واجب اعطاء الاولوية عندما تخرج من شارع للمشاة) مجمع سكني



A . فقط المركبات الاتية من اليمين
B . فقط المركبات الاتية من اليسار
C . فقط المركبات الاتية من الجهتين

21

ماذا تعني هذه الشاخصة

A . استطيع متابعة السير لانه عندي افضلية المرور حسب الشاخصة
B . لازم اتوقف لان الاشارة حمراء
C . استطيع متابعة السير و لكن يجب ترك الاولوية للسيارة القادمة حسب الشاخصة

22

كيف بافضل طريقة تتجنب الخطر في حال حصولك على اجازة سوق جديدة

A . احاول ان اسوق على مهلي في كل الاوقات
B . احاول ان اسوق عندما يكون هناك عجقة لكي اتعود على الحالات الصعبة بسهولة
C . اعطي مجال كافي بيني وبين السيارات الموجودة امامي
D . افرمل دائما

23

ما هي المعلومات التي تعطيها الشاخصة عن الشارع اللي قدام

ابو عباس

A. شارع للاستدارة و الرجوع
B ممنوع حركة السير
C. ممنوع التوقف و الوقوف
D . ممنوع دخول المركبات

24

سيارتك عرضها 180 سم . كم هو مسموح اكثر شئ للحمولة ان تبرز خارج كل جهة و ذلك عندما تسوق في طريق عام.

A . على الاكثر 20 سم
B . على الاكثر 10 سم
C . على الاكثر 30 سم
D . على الاكثر 40 سم

25

انت تسوق بسرعة70 كلم في الساعة على طريق ريفي . دواليب اليمين خرجوا خارج التبليط المزفت . ماذا تعمل

A . اترك دعسة البنزين والف الموقود بحذر آي اعود الى الطريق.
B . افرمل بنعومة والف المقود بسرعة حتى اعود بسرعة الى الطريق
C . افرمل بقوة والف المقود بحذر حتى اعود الى الطريق
D . احافظ على نفس السرعتي والف المقود بحذر حتى اعيد السيارة على الطريق

26

انت تقترب من تقاطع في طريق ريفي و تريد الاستدارة لليسار . ما هي المركبة القادمة التي يصعب تقدير سرعتها

A . تركتور) جرار
B . دراجة نارية
C . شاحنة
D . سيارة عادية

27

انت تسوق سيارة و تسحب خلفك مقطورة فيها محور واحد. اي شاخصة لا يسمح لك بتجاوزها

A. Aالشاخصة

ابو ياسر عباس

B. الشاخصة B
C. الشاخصة C
D. الشاخصة D

28

متى يجب عليك استعمال الدواليب الشتوية في سسيارت

A. من 1 كانون الأول حتى 31 اذار حتى لو كانت حالة الطقس لا تتطلب ذلك
B . من1 تشرين ثاني حتى 31 اذار حتى لو كانت حالة الطقس لا تتطلب ذلك
C . من 1 تشرين اول حتى 31 ابريل عندما تتطلب حالة الطقس ذلك
D . من 1 كانون الأول حتى 31 اذارعندما تتطلب حالة الطقس ذلك

29

هل يسمح التجاوز في احدى الحالات المبينة في الصور.



A.نعم . في الصور ة
B نعم . في الصورة
C .نعم . في الصور ة
D. نعم . في الصور ة

30

انت اتيت الى هذه الشاخصة في يوم صيفي حار. لماذا يجب ان تقلل السرعة

A . الطريق يمكن ان يكون زلق بسسبب الاسفلت
B . الطريق يحصل فيه حوادث كثيرة .
C . الطريق فيه منعطف او منعطفات كثيرة بعد الشاخصة

31

هل يسمح لك وقوف سيارتك كما هو مبين في الصورة.

A . نعم . يسمح لي بالوقوف كما هو مبين في الصورة
B . كلا . لا يسمح لي بالوقوف كما هو مبين في الصورة
C . نعم .يسمح لي بالوقوف هنا و لكن بشرط ان اشغل الغمازات

32

انت رأيت خطرا وقمت بتقليل السرعة من 100 كلم في الساعة الى50 كلم في الساعة . كيف تتاثر مسافة الفرملة.

A انها تقل حتى الخمس
B انها تقل حتى الربع
C انها تقل حتى النصف
D انها تقل حتى الثلث

33

انت تسوق في طريق ذو اتجاه واحد . ماذا تعني هذه الشاخصة

A . الشاخصة تحذر من وجود مرور متقاطع
B . من الممكن ان تاتي سيارات مقابلة
C . السيارات القادمة ملزمة بترك الاولوية لي.
D . انا ملزم بترك الاولوية للسيارات القادمة
E. الطريق سوف يضيق

34

أنت تسوق سيارة لا يوجد فيهاABS ماذا يتوجب عليك فعله إذا انزلقت السيارة في طريق جليدي؟

A . أدوس على الفاصل " كلاتش ,دبرياج " وألف بالمقود في اتجاه الطريق
B . أفرمل بقوة وألف بالمقود في اتجاه الطريق
C . أفرمل بهدوء وألف لليمين
D . أدوس على الفاصل وأفرمل بقوة

35

ابو ياسر عباس

ما هو الشئ الذي يؤثر على طول مسافة رد الفعل

A. سرعة المركبة

B . ثقل المركبة

C . فرامل المركبة

D . دواليب المركبة

36

انت تسوق في طريق ريفي صغير و متعرج و يوجد سيارات كثيرة في الخلف و اكتشفت انك يجب ان تستتدير و ترجع .ما هي اسلم طريقة حتى تستطيع الاستدارة و الرجوع في هذه الحالة.

A . اعمل لف و دوران في الطريق الريفي

B . ادخل الى شارع صغير و هناك الف و ارجع

C . ادخل الى شارع صغيرومن ثم ارجع للخلف في الطريق الريفي

D . اقف في الطريق الريفي و من ثم ارجع للخلف في طريق متقاطع

37

انت تنوي السياقة للامام الاشارة تضئ اصفر متقطع . ماذا بسري في هذه الحالة.

A . انا ملزم بالوقوف و ترك الاولوية للمرآبات الاتية من اليمين و اليسار

B . انا عندي واجب اعطاء الاولوية للمرآبات الاتية من الطرفين اليمين و اليسارولكن انا غير ملزم بالوقوف

C . انا ملزم بترك الاولوية فقط للمرآبات الاتية من جهة اليمين.

38

كيف تتاثر مسافة رد الفعل بعمرالسائق و خبرته.

A . الذي عمره 18 سنة عنده مسافة رد فعل اقصرمن السائق الخبير الذي عمره 45 سنة لان السائق الشاب عنده مقدرة رد فعل افضل.

B . الذي عمره 45 سنة و عنده خبرة لديه مسافة رد فعل اقصر من السائق الذي عمره 18سنة . لان السائق الكبير عنده مقدرة رد فعل افضل.

C . مسافة ردة الفعل لا تتاثربعمر السائق و لا بخبرته و لكنها تتاثر فقط بالسرعة

39

انت تريد ان تعمل فحص لسيارتك التي رقمها هو ABC 223 ما هي المدة السارية .

A .1كانون ثاني حتى 31 ايار

B . 1كانون ثاني حتى 31 اذار

C. 1شباط حتى 30 حزيران
D . 1كانون أول حتى 31 اذار

40

ا نت ترى انه يوجد سيارة تسوق في الحقل الموجود على يميتك . و هو يسوق بنفس سرعتك.

ما هو القانون الساري عندما يصبح هناك حقل واحد فقط.

A. الاسهم الموجودة في حقلي تعني انني ملزم بترك الاولوية للسيارة الاخرى
B . انا ملزم بترك الاولويةحسب قانون اليمين
C. الاسهم الموجودة في حقلي تعني انني سوف اسوق قبل السيارة الاخرى
D . يجب ان ننتبه لبعضنا و ان تناسب السياقة بحيث هناك امان

41

ما هي الميزة الحسنة لفرامل ABS

A. اهتراء الفرامل يقل
B . لا يلزم الضغط كثيرا على دعسة الفرامل
C. يمكن توجيه السيارة حتى عند الفرملة القصوى
D . تنقفل الفرامل عند الفرملة القوية و عندها تصبح مسافة الفرملة اقصر

42

ما هوانسب موضع للسيارة عند الانعطاف لليمين كما هو مبين في الصورة



A. اضع سيارتي على اليمين و ضمن هامش الطريق
B . اضع سيارتي قرب خط الوسط

C . اضع سيارتي الى اليمين ضمن حقل السياقة
D . اضع سيارتي في منتصف حقل السياقة

43

الباص يعطي إشارة لليسار .ما هو المطلوب منك عمله في هذا الوضع؟

A خفف السرعة أو أقف إذا لزم الأمر حتى يتمكن الباص من مغادر موقف الباص
B . أتابع السير وأعبر بالقرب من الباص لأن السرعة القصوى هي 50 كم /سا

44

في اي من هذه التفاطعات عندك واجب اعطاء الاولوية حسب قانون اليمين

Aفي الصورة A
Bفي الصورة B
Cفي الصورة C
Dفي الصورة D

45

من هو المسؤول على ان الطفل الذي عمره 14 سنة يجب ان يستعمل الحزام خلال السياقة.

A. مالك السيارة دوما هو المسؤول
B . والدي الطفل الذي عمروه 14 سنة اذا كانوا في السيارة
C . السائق هو المسؤول دائما
D . الطفل الذي عمره 14 سنة هو المسؤول لان الراكب الذي عمره فوق ال 10

سنوات يتحمل المسؤولية بنفسه.

46

47

ما هو الشيئ الخاص الذي يجب ان تفكر به عندما تضئ اشارة اطفال المدارس كما هو مبين في الصورة

A. لا يسمح للاطفال بعبور الشارع قبل ان يمشي الباص
B من الممكن ان يأتي اطفال راآضون من امام الباص
C . لان اشارة اطفال المدارس تغمز لذلك انا ملزم بترك الاولوية للباص
D . لا يسمح للاطفال بالنزول من الباص قبل ان تنطفئ اشارة الاطفال

48

اي مجموعة يحصل فيها اكبر عدد من الاموات تحت تاثير الكحول

A.النساء في العمر 18...24 سنة
B. الرجال في العمر 18...24 سنة
C. النساء في العمر 30 .. 45 سنة
D. الرجال في العمر 30... 45 سنة

49

اي من ايام الاسبوع يسري مفعول شاخصة تحديد السرعة هذه

A . ايام السبت
B ايام الاحد
C . ايام الاسبوع العادية باستثناء اليوم الذي يسبق يوم الاحد و ايام العطل .
D . كل الايام

ابو جابر عباس

50

أي إنارة لا يحق لك استعمالها بنفس الوقت عندما تسوق سيارة؟

A . الضوء العلي مع ضوء الضباب
B . الضوء العادي مع ضوء التوقيف
C . الضوء العادي مع ضوء الضباب
D . الضوء العالي مع ضوء التوقيف

51

ما هو السبب العادي لحوادث الصدم من الخلف

A . مسافة قليلة بين السيارات
B. فرامل سيئة
C . دواليب سيئة
D . مسافة رد الفعل طويلة عند السائق

52

انت اوقفت السيارة يوم الاثنين الساعة 7 صباحا متى يجب عليك احضار السيارة

A . الاثنين الساعة 9
B الاثنين الساعة 10
C . الثلاثاء الساعة 8
D . الثلاثاء الساعة 10

53

انت تنوي ايقاف السيارة قرب موقف الباص المزود بشاخصة موقف باص. و لا يوجد اي علامات اخرى . على بعد كم متر من قبل و بعد الشاخصة يحق لك التوقف

A .30متر قبل و بعد شاخصة موقف الباص
B 5 متر قبل و 20 متر بعد شاخصة موقف الباص
C .20متر قبل و 5 متر بعد شاخصة موقف الباص
D . 10متر قبل و بعد شاخصة موقف الباص

54

ما هي افضل طريقة لتقليل احتراق الوقود

A. احاول دائما ان اسوق بدوران محرك عالي
B . اترك دواسة البنزين باكرا كي اتجنب الفرملة
C . استعمل مثبت السرعة في السيارة

D . اركب غيار واطي في كل الطلعات

55

ما هي اقل مسافة يجب تركها قبل التقاطع فيما لو كنت تنوي ايقاف السيارة

A . 8متر

B . 10متر

C .12متر

D .30متر

56

هل يسمح لك تجاوزالخط المتواصل الابيض في هذه الحالة.

A . نعم مسموح في هذه الحالة

B . كلا لا يسمح ابدا بتجاوز الخط المتواصل

C . كلا لان الخط المتقطع موجود على يسار الخط المتواصل

D . نعم لان الخط المتقطع موجود على يسار الخط المتواصل

57

انت تنوي ان تستدير لليمين . اين يجب ان تقف في هذه الحالة.

A.10متر قبل التقاطع

B. عندما ارى شاخصة الوقوف .

C فورا قبل ان ادخل في في الشارع المتقاطع

D . على مستوى شاخصة الوقوف

58

كيف تعرف ان كرسي الاطفال مقبول

Aاذا كان كرسي الاطفال عليه علامةD ,, A

B.اذا كان كرسي الاطفال عليه علامةE,,,T

C . كل كراسي الاطفال ناجحة ومقبولة

59

ما هو القانون الساري عندما يريد السائق ان يعود من هامش الطريق الى حقل السياقة

A . يجب اتباع قانون اليمين

B . قانون اسنان السحاب هو الساري

C . السائق الموجود في هامش الطريق ملزم بترك الاولوية

D . السائق الموجود في حقل السياقة ملزم بترك الاولوية

60

أنت أجريت تغيير في السيارة لا يتوافق مع ما هو مسجل في أوراق تسجيل السيارة .متى تكون أنت ملزم بإجراء فحص التسجيل للسيارة ؟

A . خلال اسبوع .

B . خلال شهر

C . خلال 3 اسابيع

D . خلال شهرين

61

ماذا تعني هذه الشاخصة

A ممنوع تجاوز المركبات الآلية التي يزيد عدد عجلاتها عن اثنين

B ممنوع تجاوز كافة المركبات الآلية

C فقط ممنوع التجاوز عن المركبات الخاصة

62

ما هو الاحتمال الصحيح ؟

A ممنوعPARKERA بالايام العادية الساعة20.00

B ممنوعSTANNA يوم الاحد في الساعة الساعة16.00

C ممنوعSTANNA بالايام العادية الساعة15.00

63

انت تسوق في طريق ريفي .اي شاخصة تعني انه يوجد معبر مشاة في الامام.

ابو ياسر عباس

A.شاخصة A
B.شاخصة B
C.شاخصة C
D شاخصة D

64

ما هي المادة الموجودة في الغازات و التي تسبب حموضة في الغابات و البحيرات

A. الهدروكربون
B . اكسيد الازوتيك
C . اول اكسيد الكربون
D . ثاني اكسيد الكربون

65

انت تسوق في الظلام ومعك على سقف السيارة حمولة بارزة للامام بشكل كافي انه يلزم وضع علامة.كيف يجب ان يكون شكل العلامة

A . لمبة بيضاء و عاكس ابيض
B. علم احمرو اصفر
C . لمبة حمراء و عاكس حمراء
D . فقط عاكسة حمراء
E . عاكس احمر و عاكس اصفر

66

لماذا يقع السائق قليل الخبرة في حالات صعبة اكثر من السائق الخبير

A. لانهم اضعف في معرفة الاخطار
B . لانهم اضعف في مقدرة رد الفعل
C . لانهم اضعف في معرفة القوانين

67

في اي وقت من النهار يوجد اكثر خطر لمرور الحيوانات البرية

A . الشروق و الغروب تتحرك الحيوانات اكثر شئ
B . في الليل لان الحيوانات تبحث عن اولادها
C . في وسط النهار لان الحيوانات تكون نشيطة

68

انت تسوق في الاوتوستراد هل يحق تجاوز عدة مركبات بنفس الوقت

A . نعم انه مسموح
B . كلا فقط مركبة واحدة كل مرة
C . نعم . و لكن فقط اذا اعطيت تنبيه صوتي زمور

ابو ياسر عباس

69

كيف تساعد شخص فاقد الوعي ولا يتنفس؟

A أعطيه تنفس اصطناعي وعندما يبدأ بالتنفس عندها أرفع رجليه وأغطيه بشرشف

B . أعطيه تنفس اصطناعي وعندما يبدأ بالتنفس ألقيه على ظهره

C أتأكد أنه يستطيع التنفس بحرية .أعطيه تنفس اصطناعي وعندما يبدأ بالتنفس ألقيه على الجانب.

70

أي من المركبات يمنع دخولها إلى هذا الطريق التي وضعت فيه هذه الشاخصة

A فقط سيارات خاصة

B جميع المركبات الآلية

C كافة المركبات الآلية التي يزيد عدد عجلاتها عن اثنين

ابو ياسر عباس

www.ahlulbeit.se

	A	B	C	D
1		X		
2	X			
3				X
4		X		
5	X			
6	X			
7	X			
8		X		
9	X			
10		X		
11	X			
12			X	
13			X	
14		X		
15		X		

	A	B	C	D
16	X			
17	X			
18		X		
19			X	
20			X	
21		X		
22			X	
23		X		
24	X			
25	X			
26		X		
27			X	
28				X
29			X	
30	X			

	A	B	C	D
31		X		
32		X		
33		X		
34	X			
35	X			
36		X		
37		X		
38		X		
39	X			
40				X
41			X	
42	X			
43	X			
44				X
45			X	

	A	B	C	D
46				X
47		X		
48		X		
49			X	
50			X	
51	X			
52		X		
53			X	
54		X		
55		X		
56	X			
57			X	
58		X		
59			X	
60		X		

61.. A	62.. C	63.. C	64.. B	65.. A
66.. A	67.. A	68.. A	69.. C	70.. C

abbas2ha@hotmail.com 0735557898 السويد اوريبرو عباس الشكرجي ابو ياسر